Nom : ..... **Classe :** .....

Prénom : ..... **Date :** .....

SEANCE N°3
EXERCICES

☞ Exercice n°1

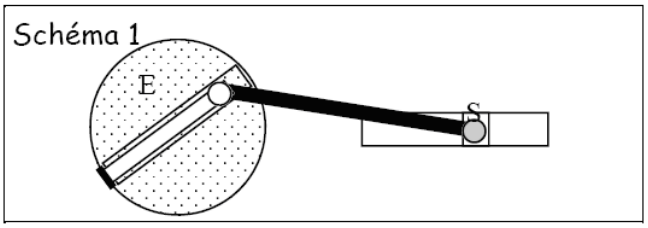

Schéma 1

1) E a un mouvement de .....

S a un mouvement de .....

2) Pour que S effectue un aller/retour complet, combien E doit effectuer de tour ? .....

3) Dans une locomotive à vapeur, c'est E qui agit sur S ou S qui agit sur E ? .....

☞ Exercice n°2

Bielle manivelle :

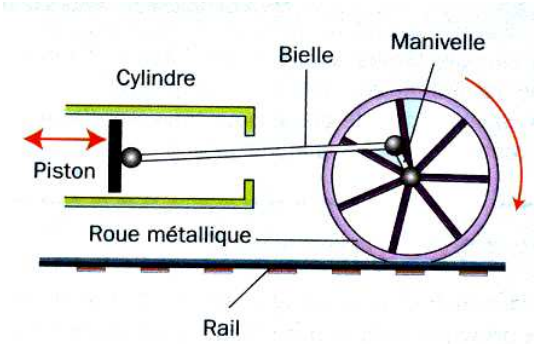

Roue dentée, crémaillère :

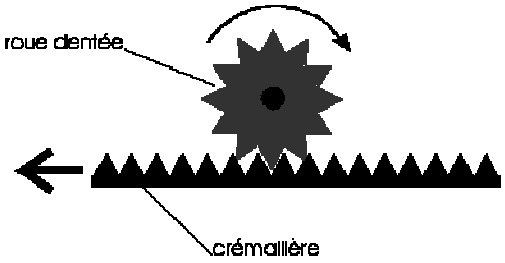

Quel est le mouvement de la roue dentée ?

.....

Quel est le mouvement de la crémaillère ?

.....

Qu'est ce qui différencie ces deux systèmes ?

.....

.....

.....

.....

.....

.....